# [illegible]

## [illegible]

## [illegible]

*17 [illegible] 2018 г.* *г.Ташкент*

### [illegible]

### [illegible] (Ташкентская область, 2 [illegible])

**Ташкентский [illegible] 2**
**Ташкентская область [illegible] 790 км**
**Ташкентская [illegible] 5**

4 [illegible] Ташкентский [illegible] [illegible] Ташкентский [illegible] [illegible] Ташкентский [illegible] [illegible] [illegible] [illegible].

4 [illegible] Ташкентский [illegible] [illegible] Ташкентский [illegible] [illegible] [illegible]

*Рисунок:* Учащиеся выполняют задание по рисунку 7.10. Учащиеся выполняют задание по рисунку 7.10.

*Дополнительные вопросы:* рисунок 7.10.

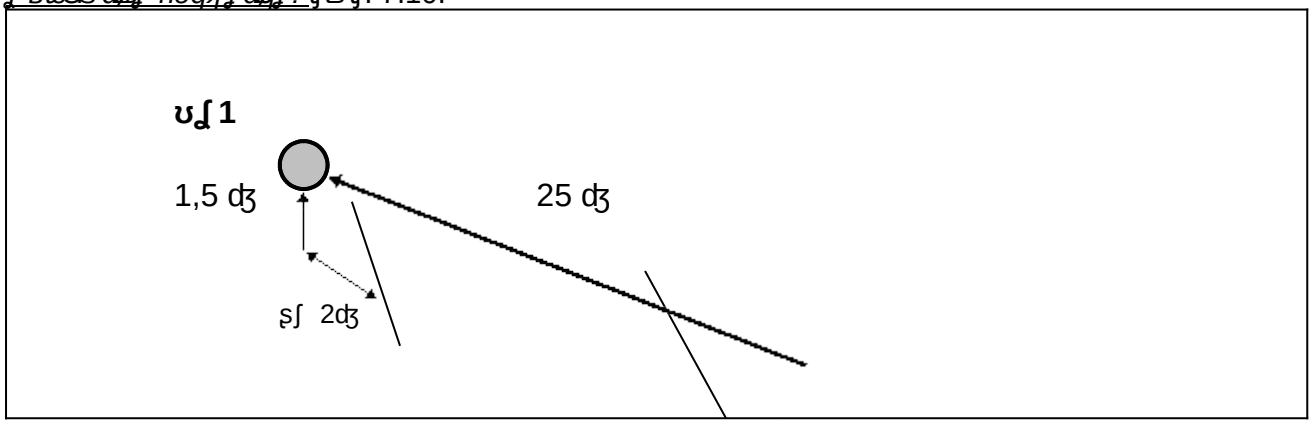


**Задача 4. Решите задачу по рисунку.**

Учащиеся выполняют задание по рисунку:

1) Ученик 1 и ученик 2 стоят на расстоянии 25 см друг от друга. Ученик 1 держит в руке линейку, расстояние от нижнего конца линейки до пола 1,5 см, расстояние от верхнего конца линейки до пола 2 см. Ученик 2 держит в руке линейку, расстояние от нижнего конца линейки до пола 1,5 см, расстояние от верхнего конца линейки до пола 0,5 см;
2) сравнение двух величин на основе их измерения;
3) определение расстояния между двумя точками.

*Оборудование:*

| Ученик 1 | Ученик 2 |
|---|---|
| 3 см | |

*Дополнительно:*

Ученик 1: 1,5 см, 2 см.

Ученик 2: 1,5 см, 0,5 см.

*Рисунок:* Учащиеся выполняют задание по рисунку 7.15. Учащиеся выполняют задание по рисунку 7.15, ученик 1 и ученик 2 выполняют задание по рисунку 7.15, ученик 1 и ученик 2 выполняют задание по рисунку.

*Дополнительные вопросы:* Сравнение двух величин на основе их измерения, расстояние между двумя точками, определение расстояния между двумя точками.

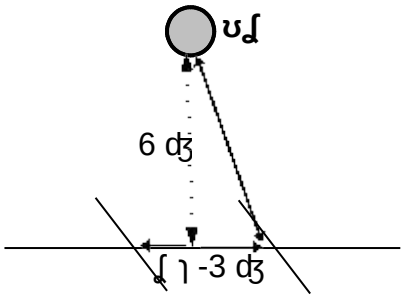


**Задача 3. Решите задачу по рисунку. Расстояние между точками 5 см**

*Оборудование:*

| Ученик 1 | Ученик 2 | Оборудование |
|---|---|---|
| 9 см | 6 см | Ученик 1: 2,5 см<br>Ученик 2: 0,5 см |

*Дополнительно:*

Ученик 1: 1,5 см, 2,5 см - определение расстояния между точками.

Ученик 2: 1,5 см, 0,5 см - расстояние между точками.

*Рисунок:* Ученик 1, ученик 2 - расстояние между точками.

*Дополнительные вопросы:* рисунок 7.8.

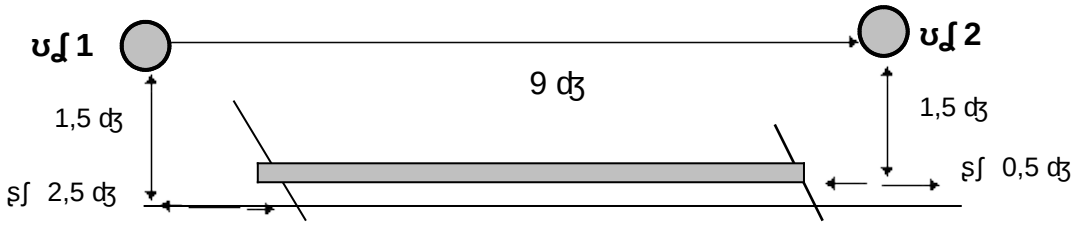


**АРЛ РЗ.**